No.

Date

**例題 3　平行線と角**　　教科書 p.96〜97

右の図で $\ell /\!/ m$ のとき，$\angle x$ の大きさを求めなさい。

(1)

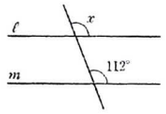


(2)

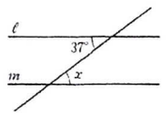


How

同位角（平行線と交わってできる角のうち位置が同じ角）は等しい。
同位角は位置を表すもの。
平行線のときは、大きさが等しくなる
直線のつくる角は 180°
角度がわかったところはかきこむ
錯角　　は等しい

(1)

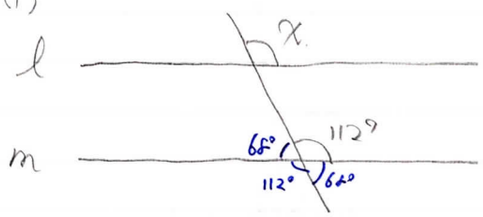





同位角は等しい

A　112°

(2)

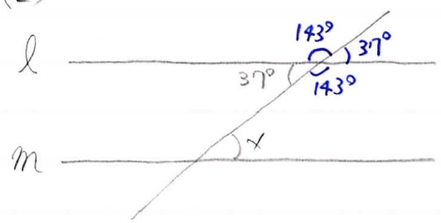

錯角は等しい

A　37°

No.

Date